4. SINIF

KASIM ARA TATİLİ

Etkinlik Kitabı

Cevap Anahtarı



TÜRKÇE

MATEMATİK

SOSYAL BİLGİLER

FEN BİLİMLERİ

Her güne özel ders etkinlikleriyle düzenlenmiştir.

ÖĞRETMENCE
ÖĞRETMENLERİN ORTAK DİLİ

İLKOKULLUYUM

@ogretmencex

PAPUGA

Kare kodu okut, Papuga'yı dinle!

SORUN VARSA ÇÖZÜM VAR! Ben Çözerim



240 SAYFA



480 SAYFA



640 SAYFA



800 SAYFA

Değerlendirme Kitapçığı Hediye



24 SAYFA

İLKOKULLUYUM YAYINLARI

KEŞİF TAKIMI

EXTRA GÜÇLÜ

PARAGRAF-PROBLEM

2.3.4. sınıf



Kaydır!

İLKOKULLUYUM YAYINLARI

Sonbaharın Sessiz Hikâyesi

Sonbahar, yaz ve kış arasında yer alan bir geçiş mevsimidir. Bu mevsimde havalar yavaş yavaş soğumaya başlar. Ağaçların yaprakları sarı, turuncu ve kahverengi tonlarına döner. Sonbahar aynı zamanda hasat zamanıdır. Çiftçiler tarlalardaki buğday, mısır ve ayçiçeği gibi ürünleri toplar. Kuşlar sıcak yerlere göç ederken doğada birçok değişim yaşanır.

Sonbaharda günler kısalır, geceler uzar. Yağışlar artar ve rüzgâr daha sık esmeye başlar. İnsanlar bu mevsimde daha kalın kıyafetler giymeye başlar. Doğanın bu renkli değişimi, pek çok sanatçıya ilham verir; şairler şiirler yazar, ressamlar sonbahar manzaraları çizer.

Kısacası sonbahar, hem değişimin hem de yeni başlangıçların mevsimidir. Doğa bir hazırlık sürecine girerken, öğrenciler de yeni eğitim–öğretim yılına başlar. Bu yönüyle sonbahar, hayatımızda önemli bir dönüm noktasıdır.

▶ Metnin konusu nedir?

▶ Metnin ana fikri nedir?

▶ Metnin türü nedir?

A) Şiir
B) Hikâye edici metin
C) Mektup
D) Bilgilendirici metin

▶ Metinde sonbaharda göç eden hangi canlı türünden bahsedilmiştir?

A) Balıklar
B) Kuşlar
C) Böcekler
D) Kurbağalar

▶ Metne göre sonbahar mevsimi insanları nasıl etkiler?

▶ Sen sonbahar mevsiminde neler yapmayı seversin? Kısaca yaz.

Okunuşları verilen sayıları yazıyla, yazılı olarak verilen sayıları rakamlarla ifade edelim.

4263 = ...
12362 = ...
941500 = ...
8965 = ...

otuz altı bin kırk dört = ...
yedi bin iki yüz altmış beş = ...
otuz iki bin altı yüz dokuz = ...
sekiz bin bir = ...

Ritmik saymaları kuralına göre devam ettirelim.

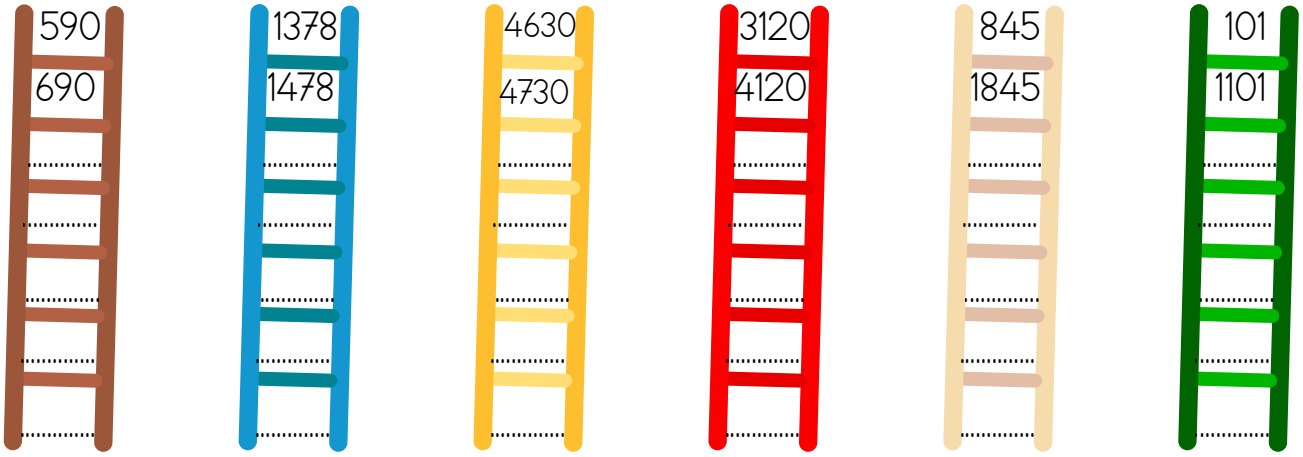

Abaküsle modellenen sayıya göre tabloyu dolduralım.

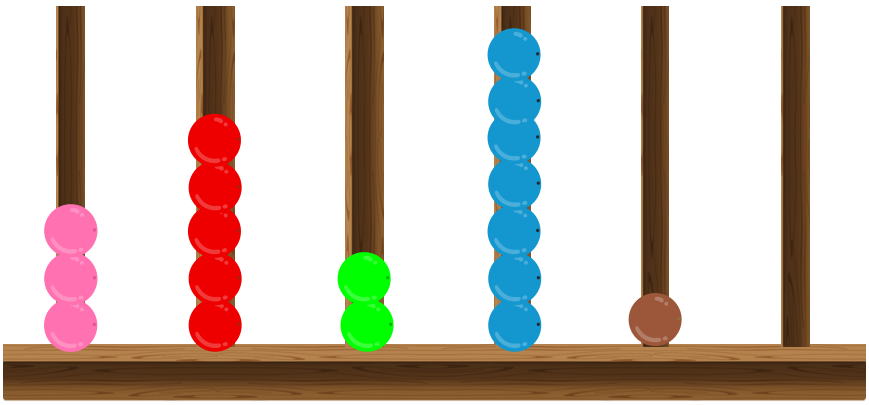

Sayı						
Basamak Adı	..... Basamağı	..... Basamağı	..... Basamağı	..... Basamağı	..... Basamağı	..... Basamağı
Basamak Değeri						
Okunuşu						

Aşağıda verilen kimlik kartlarının üzerindeki bilgileri kendi bilgilerimize göre dolduralım.





Kayaçlarla ilgili verilen ifadelerin doğru olanların başına "D", yanlış olanların başına "Y" yazalım.

( ) Kayaçlar, bir veya birden fazla mineralin bir araya gelmesiyle oluşur.

( ) Kayaçların tamamı içinde mutlaka fosil bulundurur.

( ) Kayaçların bazıları evlerde tezgâh, merdiven ve heykel yapımında kullanılabilir.

( ) Tüm kayaçlar aynı renkte ve yapıda olur.

( ) Kayaçlar yalnızca deniz altında bulunur, karalarda görülmez.

( ) Bazı kayaçlar süs eşyası yapımında kullanılabilir.

Aşağıdaki metinde yapılan yazım yanlışlarını düzelterek tekrar yazalım.

Okulda Bitki Dikme Etkinliği

geçen hafta cumartesi günü okulumuzda bir bitki Dikme etkinliği yapıldı. öğretmenimiz bizden evden saksı getirmemizi istedi. biz de kardeşimle birlikte iki tane saksı hazırladık. sınıfımızda Elma çekirdeği, fesleğen ve nane ektik. okul bahçesine de çam fidanı diktik. müdür yardımcısı Ayşe hanım bize teşekkür etti.

.....

.....

.....

.....

.....

.....

.....

.....

Belirtilen noktalama işaretlerini uygun birer cümlede kullanalım.

















Sayıları en yakın onluğa yuvarlayarak sol boşluğa, en yakın yüzlüğe yuvarlayarak sağ boşluğa yazalım.

4251 →	653 →	3897 → ....
5168 →	3256 →	7129 → ....
456 →	6185 →	791 → ....

Aşağıda verilen sayıları sembol kullanarak karşılaştıralım.

4576	.....	5136
51003	.....	623654
8432	.....	8342
512300	.....	512300
3326	.....	2326
54036	.....	56695

6203	.....	11236
23685	.....	35216
101663	.....	140321
22001	.....	13652
7125	.....	2365
2685	.....	2685

Aşağıdaki örüntüleri devam ettirelim.

3 (+4) 7 (+4) 11 → ..... → ..... → ..... → ..... → .....

15 (+7) 22 (+7) 29 → ..... → ..... → ..... → ..... → .....

2 (+5) 7 (-3) 4 → ..... → ..... → ..... → ..... → .....

20 (-8) 12 (+10) 22 → ..... → ..... → ..... → ..... → .....

Aşağıdaki ilgi ve yetenek alanlarından kendimize uygun olanları boyayalım.

Basketbol oynamak	Resim çizmek	Kitap okumak	Bisiklet sürmek
Tiyatroya gitmek	Müzik yapmak	Hayvan beslemek	Yüzmek
Sinemaya gitmek	Fotoğraf çekmek	Futbol oynamak	Dans etmek
Deney yapmak	Fidan ekmek	Kod yazmak	Kaykay sürmek
Gezmeyi sevmek	Boyama yapmak	Paten sürmek	Origami yapmak

Aşağıdaki görsellerden fosil oluşumuna örnek olabilecekleri işaretleyelim.


☐


☐


☐


☐


☐


☐


☐


☐

BEN ÖĞRETMENİM

Doğuda, batıda benim izlerim,
Güneyde, kuzeyde benim **özverim**.
Dağlar yol versin, ister vermesin,
Dağı, taşı deler yine giderim.

Devletin çatısı benim **eserim**,
Ata'mın dediği yolda giderim.
Anamdan, babamdan hatta kendimden,
Bizleri kurtaran eli severim.

İster bozkır olsun, isterse çorak,
Orası bir vatan, kutsal bir durak.
Işığı yakmaktır, benim **görevim**,
Bizlere yakışmaz, geride durmak.

Ayfer TOMRUK

Aşağıdaki tabloyu "Ben Öğretmenim" metnine göre dolduralım. Ardından soruları metne göre cevaplayalım.

Metnin türü nedir? ----------	Metnin başlığı nedir? ----------	Bu tür metinleri yazanlar ne olarak adlandırılır? ----------
Metin kaç mısradır? ----------	Metin kaç kıtadır? ----------	Metnin ana duygusu nedir? ----------

- Metinde zıt anlamlılarıyla birlikte verilmiş kelimeleri yazalım.

- Metinde koyu yazılmış kelimelerin eş anlamlılarını yazalım.

- Şiirde geçen "ışığı yakmak" sözü hangi anlamda kullanılmıştır?

Toplama işlemlerini yapalım.

3526 + 46 = ...	1265 + 92 = ...	5428 + 95 = ...	6351 + 436 = ...	7152 + 652 = ...
1965 + 545 = ...	2698 + 220 = ...	4218 + 4561 = ...	5231 + 2169 = ...	3268 + 5511 = ...
6523 + 243 + 51 = ...	1362 + 526 + 23 = ...	3321 + 2368 + 268 = ...	2000 + 1000 + 100 = ...	4123 + 2186 + 362 = ...

Çıkarma işlemlerini yapalım.

8752 − 32 = ...	4568 − 59 = ...	2451 − 346 = ...	4872 − 632 = ...	5163 − 103 = ...
6851 − 749 = ...	7152 − 231 = ...	9126 − 4015 = ...	7152 − 3142 = ...	4596 − 4321 = ...
4831 − 2513 = ...	6125 − 2235 = ...	4123 − 2100 = ...	6235 − 3346 = ...	2468 − 1279 = ...

Aşağıdaki boşlukları akrabalık ilişkisine göre dolduralım.

Babamızın kız kardeşi	Annemizin erkek kardeşi	Annemizin annesi .....
Amcamızın eşi bizim	Teyzemizin kızı bizim	Annemizin kız kardeşi .....
Babamızın babası	Annemizin babası	Babamızın erkek kardeşi .....

Aşağıda verilen olayların Dünya'nın hangi hareketi sonucu oluştuğunu okların üzerinden giderek işaretleyelim.

Gün



Mevsim



Yıl



Gece–Gündüz



24 saat



Resimlerde anlatılan deyimi altlarındaki boşluklara yazalım.







Aşağıdaki metinden gerçek ve hayalî ögeler içeren cümleler bularak ilgili alanlara yazalım.

Konuşan Çanta

Sabah okula gitmek için hazırlanmaya başladım. Kahvaltımı yaptım, dişlerimi fırçaladım ve çantamı almak için odama girdim.
Ama çantam yerde değildi. Yatağın üstünde oturuyordu ve bana seslendi:
"Bugün okula gitmek istemiyorum, çok yoruldum!" dedi.
Bir an şaşırdım, çünkü çantaların konuşamayacağını biliyordum.
Yine de ona cevap verdim: "Ama seni götürmezsem defterlerimi nereye koyarım?" Çanta fermuarını açıp kapatarak güldü. "Tamam, ama bugün beni fazla doldurma!" dedi. Ben de çantamı alıp okula yürüdüm. Sokakta insanlar işe gidiyor, kuşlar cıvıldıyordu. Okula vardığımda çantam tekrar sessizleşti. Galiba sadece benimle şakalaşmıştı.

Gerçek Ögeli Cümleler

Hayali Ögeli Cümleler

Zihinden çıkarma işlemlerini yapalım.

420−60=.....	950−50=.....	260−40=.....
524−10=.....	637−90=.....	327−80=.....
420−100=.....	630−300=.....	570−200=.....
782−400=.....	912−100=.....	808−300=.....
907−900=.....	427−300=.....	621−600=.....

Zihinden toplama işlemlerini yapalım.

3600+600=.....	5200+400=.....	1600+700=.....
6100+200=.....	4700+500=.....	7100+800=.....
8200+900=.....	9100+300=.....	4220+400=.....
5170+300=.....	2384+200=.....	3782+500=.....
7581+100=.....	2185+700=.....	1568+400=.....

Görselleri verilen oyunların isimlerini yazalım.

(Saklambaç, Karagöz–Hacivat, yakan top, seksek, aşık oyunu, körebe)



.....



.....



.....



.....



.....



.....

Aşağıda besinleri vücudumuzdaki görevleri yönüyle sınıflandırarak uygun boşluklara numaralarını yazalım.



Enerji Vericiler	Yapıcı–Onarıcılar	Düzenleyiciler

Kelimelerin eş anlamlılarını soluna, zıt anlamlarını sağına yazalım.

----------	Büyük	----------	----------	İhtiyar	----------
----------	Uzak	----------	----------	Tutsak	----------
----------	Sessiz	----------	----------	Kirli	----------
----------	Savaş	----------	----------	Soru	----------
----------	Fakir	----------	----------	Zayıf	----------
----------	Cömert	----------	----------	Issız	----------
----------	Fayda	----------	----------	Islak	----------

Eş sesli kelimelerin anlamlarını içeren görsel numaralarını yanlarına yazalım.

İn →
Kaz →
Yat →
Asma →
Uç →
Çay →
Satır →
Kara →



Aşağıdaki problemleri çözelim.

Bir çıkarma işleminde fark 457, eksilen 660'tır. Bu çıkarma işleminde çıkan kaçtır?



Binler basamağı 7 olan en küçük 4 basamaklı tek sayı ile 700'ün toplamı kaçtır?



Annem market alışverişine 184 TL ve manava da 129 TL ödedi. Alışverişleri yaptıktan sonra cüzdanında 415 TL kaldığına göre, annemin alışverişten önce cüzdanında kaç TL vardı?

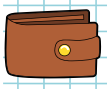

Seda Hanım'ın çiftliğinde 920 hayvan vardır. Hayvanların 318 tanesi tavuk, 284 tanesi ördek, geri kalanları ise hindidir. Buna göre Seda Hanım'ın çiftliğinde kaç hindi vardır?



Anneannem 20 yıl önce 42 yaşındaydı. 15 yıl sonra kaç yaşında olur?



Aklımdan tuttuğum sayıdan 1248 çıkarıp 3952 eklersem sonuç 6720 oluyor. Buna göre aklımdan tuttuğum sayı kaçtır?



Mert, 6395 doğal sayısının yüzler ve birler basamağındaki rakamlarının yerini değiştirmiştir. Buna göre oluşan yeni sayı ile ilk sayı arasındaki fark kaçtır?



Bir satranç takımının fiyatı, lego setinin fiyatından 645 TL daha ucuzdur. Lego seti 2980 TL olduğuna göre iki ürünün toplam fiyatı kaç TL'dir?



Aşağıda bahsedilen milli mücadele kahramanlarımızın adlarını yazalım.



..... 15 Mayıs 1919'da İzmir'e çıkan Yunan askerlerine ilk kurşunu atan gazetecidir. Bu davranışıyla direnişin başladığını göstermiştir. "İlk kurşun" sembolü olarak Millî Mücadele tarihine geçmiştir.



..... Doğu Cephesi'nin komutanıdır ve Ermenilere karşı büyük başarılar kazanmıştır. Yetim çocuklara sahip çıktığı için "Şark Fatihi" ve "Yetimler Babası" olarak anılır.



..... Aydın'da düşmana karşı ilk direnişleri başlatan efelerden biridir. Zeybekliği ve cesaretiyle tanınmıştır. Kuva-yı Milliye hareketinin önemli liderlerindendir.



..... Antep savunmasında büyük kahramanlık gösteren bir Kuvâ-yi Milliye komutanıdır. Düşman işgaline karşı "Ben vatanıma düşmanı sokmam!" diyerek mücadele etmiştir.

Tablodaki boşlukları istenilen bilgilere göre örneklerle dolduralım.

Kış meyvelerini yazalım. --- --- --- ---	Kış sebzelerini yazalım. --- --- --- ---
Yaz meyvelerini yazalım. --- --- --- ---	Yaz sebzelerini yazalım. --- --- --- ---