ESKİ OYUNLAR

Bilgisayarlar yokken , çocuklar ne yaparmış ?
Bugün anlattı babam, hangi oyunları oynarmış.
Dinledim uzun uzun , o eski oyunları,
Öylece şaştım kaldım, meğer ne oyunlar varmış.

Önce çelik çomak dedi, öylece bakakaldım.
Ne demek istemişti, ilk önce anlamadım.
İki sopaymış bunlar, biri uzun biri kısa,
Vurunca tüm gücüyle , uçarmış en uzağa.

Körebeymiş diğer oyun, gözleri bağlı ebenin.
Kaçışırmış çocuklar, mümkünü yokmuş görmenin.
Sonunda yakalarmış , çocuklardan birini,
Zevkine doyulmazmış , körebe oynamanın.

Türlü türlü oyunlar, anlatmayla bitiremem.
Hepsini sayarsam , bu şiiri yetiremem.
Sizde bazen oynayın, bu eski oyunları,
Bilgisayar başından kalkın, donatın sokakları.

❖ *Aşağıdaki soruları , şiire göre yanıtlayınız.*

1- Çocuğun babası hangi eski oyunlardan bahsetmiş?
Çelik çomak ve körebe oyunlarından bahsetmiş.

2- Çelik çomak nasıl bir oyunmuş?
Biri uzun,diğeri kısa iki sopayla oynanan bir oyunmuş.
Kısa sopaya vurarak uzağa fırlatılırmış.

3- Körebe nasıl bir oyunmuş?
Gözleri bağlı olan ebenin kaçışan çocukları yakalamaya çalıştığı bir oyunmuş.

4- Şairin çocuklara tavsiyesi nedir?
Bilgisayar basından kalkarak sokakları donatmalarını istemiş.

5- Şiirin başlığını siz belirleseydiniz , nasıl bir başlık seçerdiniz?
Kişiye göre değişen bir cevap, siz belirleyiniz.

❖ *Aşağıda bazı deyimler ile ilgili görseller verilmiştir. Bu görselleri yorumlayarak, deyimleri bulunuz. Boşlukları doldurunuz.*

Deyim: Gözden düşmek

Anlamı: Eski önemini yitirmek

Deyim: Saçını süpürge etmek

Anlamı: Özveriyle çalışmak fedakarlık yapmak

Deyim: Aklı bir karış havada olmak

Anlamı: Aklı başında olmamak, sağlıklı düşünememek

www.ilkokulluyum.com

❖ *Aşağıdaki bulmacanın içerisinde bazı deyimler saklı. Bulmacanın yanında yazan deyimleri, bulmacanın içerisinden bulunuz.*

G	Ö	Z	Ü	D	Ö	N	M	E	K	Ö	Y	K	B
K	A	J	F	İ	S	N	G	M	M	F	T	Ö	Ç
U	V	A	K	L	I	Y	A	T	M	A	K	S	B
L	L	A	G	İ	A	L	Z	L	J	C	C	E	A
A	V	Ğ	P	N	Ç	J	İ	B	İ	S	U	Y	U
K	G	Z	P	D	M	Y	O	L	B	M	Ç		B
K	Z		G	E	J	Y	L	Ö	S	J	Ç	D	H
A	H	N	H	T	Z	V	A	S	Ğ	C	Z	Ö	Ü
B	K	I	Ş	Ü	Z	O	Ç	T	S	F	T	N	Ü
A	U	A	G	Y	Z	V	B	P	K	C	H	M	C
R	N	R	Ş	B	A	Ş	I	Ş	İ	Ş	M	E	K
T	R	A	S	İ	S	V	K	Ç	K	M	Ş	K	R
M	A	M	O	T	L	M	V	S	E	A	C	N	Ç
A	K	A	B	M	E	M	G	N	E	D	H	A	R
K	R	K	B	E	L	A	T	M	A	K	H	İ	K

- AKLI YATMAK
- BAŞI ŞİŞMEK
- EL ATMAK
- AĞZINI ARAMAK
- DİLİNDE TÜY BİTME
- KÖŞEYİ DÖNMEK
- GÖZÜ DÖNMEK
- KULAK KABARTMAK

❖ *Aşağıdaki deyimlerin ilk önce anlamlarını yazalım. Daha sonra bu deyimleri tümce içerisinde kullanalım.*

Kulak misafiri olmak

Anlamı: Fark ettirmeden dinlemek.

Cümle: Konuşulanlara istemeden kulak misafiri oldum.

Gözlerini dört açmak

Anlamı: Çok dikkatli olmak.

Cümle: Aman gözlerini dört aç, sakın kaçmasın!

Etekleri tutuşmak

Anlamı: Panik yapmak, ne yapacağını bilememek.

Cümle: Söylenilenleri duyunca etekleri tutuştu.

❖ *Aşağıdaki sayı çarklarındaki rakamları zihinden toplayarak, örnekteki gibi ilgili bölümlere yazınız.*

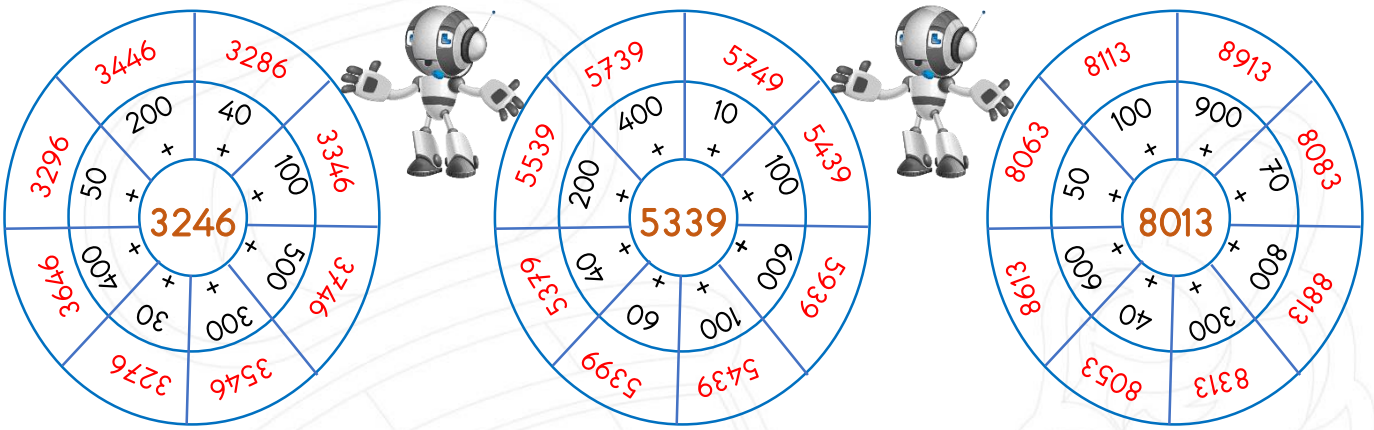

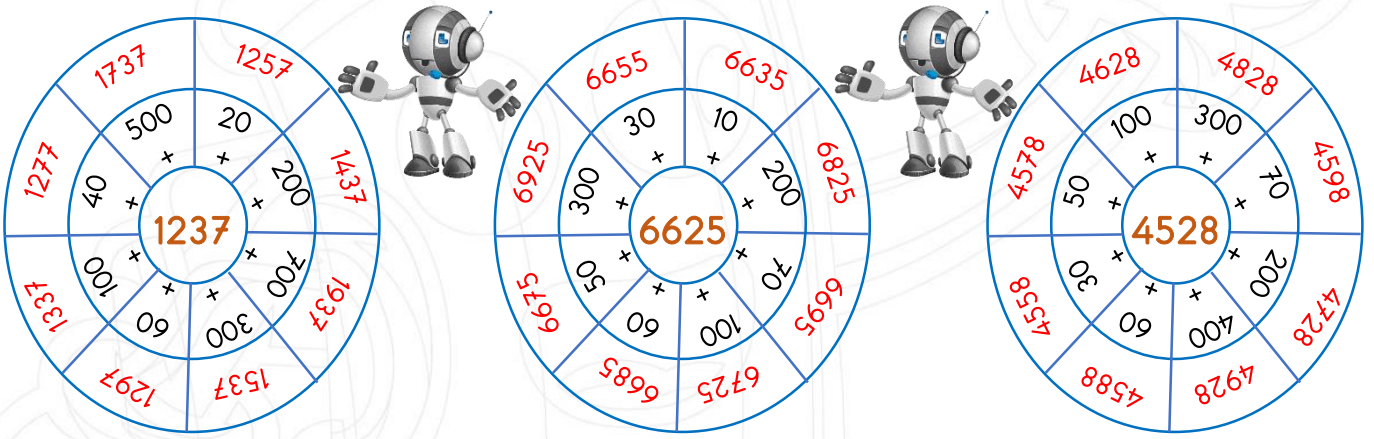

❖ *Aşağıdaki toplama işlemlerini zihinden yaparak, en alt bölümdeki şifreyi bulunuz.*

2512 + 300 =	2812	M	2796 + 200 =	2996	K	5512 + 300 =	5812	L
7852 + 100 =	7952	İ	2005 + 700 =	2705	Y	1345 + 100 =	1445	U
4158 + 800 =	4958	L	3210 + 600 =	3810	U	8128 + 800 =	8928	K
1025 + 900 =	1925	O	4200 + 200 =	4400	L	2046 + 900 =	2946	U

7952	4958	2996	1925	8928	1445	5812	4400	3810	2705	2946	2812
İ	L	K	O	K	U	L	L	U	Y	U	M

Problemler

1- Bir çiftlikte 1. gün 5847 yumurta, 2. gün 2145 yumurta, 3. gün ise 452 yumurta üretildi. Toplam kaç yumurta üretilmiştir?
Cevap: 5487 + 2145 + 452 = 8084

2- Metin her gün bir önceki günden 550 m daha fazla yürüyor. Birinci gün 4250 m yürüyen Metin, 2 günde toplam kaç metre yürümüştür?
Cevap: 4250+550= 4800

4800 + 4250 = 9050

3- *"5 - 1 - 3 - 4 - 0"* rakamlarını kullanarak yazılabilecek en büyük ve en küçük 4 basamaklı doğal sayıların toplamı kaçtır?
Cevap: 5431 + 1034 = 6465

4- Binler basamağı 8 olan en büyük dört basamaklı sayı ile 983'ün toplamı kaçtır?
Cevap: 8999 + 983 = 9982

5- Bir kümeste 1112 hindi, 126 kaz var. Tavukların sayısı ise, hindilerle kazların toplamı kadardır. Kümeste toplam kaç hayvan vardır?
Cevap:
1112+126 = 1238(tavukların sayısı)

1112 + 126 + 1238= 2476

6- Bir okuldan bir yılda 1981 erkek öğrenci, erkeklerden 209 tane fazla da kız öğrenci mezun oluyor. Bu okuldan bir yılda toplam kaç öğrenci mezun oluyor?
Cevap: 1981+209= 2190(kızlar)

2190 + 1981 = 4171

7- Rakamları birbirinden farklı en büyük 3 basamaklı sayı ile rakamları birbirinden farklı en küçük 4 basamaklı sayının toplamı kaçtır?
Cevap:
987 + 1023 = 2010

8- Dört basamaklı en küçük sayıyı kendisiyle toplayıp, üzerine 1245 eklersem sonucu kaç bulurum?
Cevap:
1000 + 1000 = 2000

2000 + 1245 = 3245

Su ve mineraller, vitaminler

❖ *Doğru olan ifadelerin başına "D", yanlış olan ifadelerin başına "Y" yazınız.*

(D) Su ve mineraller tüm besinlerde bulunur.

(D) Vitaminler, düzenleyici besin içerikleridir.

(Y) Su, enerji veren bir besindir.

(Y) Vücudumuzun yarısı sudur.

(Y) Mineralleri fazla tüketirsek kilo alırız.

(Y) Vitaminler vücudumuzun enerji deposudur.

(Y) Su, yapıcı ve onarıcı bir besin maddesidir.

(D) Sebze ve meyveler, vitamin yönünden zengin besinlerdir.

(D) C vitamini portakal, mandalina gibi besinlerde bulunur.

(D) D vitamininin en önemli kaynağı güneş ışığıdır.

❖ *Kelime çarkındaki kelimeleri inceleyiniz. Uygun olan kelimelerle boşlukları tamamlayınız.*

Vitaminler düzenleyici besinler grubundadır.

Vitaminler harflerle sembolize edilir

Vitaminler bizi hastalıktan korur.

Vücudumuzun %60'ı sudur.

Su olmazsa insanlar yaşayamaz

Havuçta A vitamini bulunur.

Demir vücudumuzdaki bir mineraldir.

Su ve mineraller tüm besinlerde bulunurlar

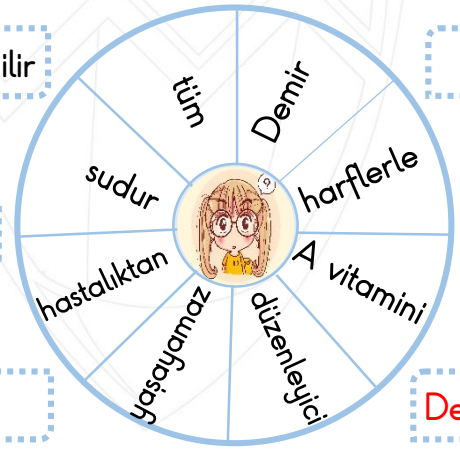

Milli Kültürümüz

❖ *Doğru olan ifadelerin başına "D", yanlış olan ifadelerin başına "Y" koyunuz.*

(D) Türkülerimiz yüz yıllardır dilden dile söylenerek günümüze kadar ulaşmıştır.

(Y) Askerler sessizce ve sade bir şekilde askere gönderilir.

(D) Zeybek Ege Bölgesi'ne ait bir halk oyunudur.

(D) Bayramda şeker toplarız.

(Y) Pizza kültürümüzün vazgeçilmez bir parçasıdır.

(Y) Türk mutfağının en tanınmış yemeklerinden biriside hamburgerdir.

(D) Kemençe, Karadeniz Bölgesi'ne ait bir çalgıdır.

(D) Güreş milli sporumuzdur.

(D) Keloğlan bize ait bir masal kahramanıdır.

❖ *Aşağıda , milli kültürümüze ait öğelere yer verilmiştir. Boşlukları uygun örnekler ile doldurunuz.*

Yemeklerimiz	Geleneklerimiz	Halk Oyunlarımız
Kuru fasulye	Çocuk görme	Halay
İmambayıldı	El öpme	Horon
Pilav	Çocuk görme	Zeybek

Oyunlarımız	Enstrumanlarımız	Kahramanlarımız
Saklambaç	Bağlama	Nasreddin Hoca
Körebe	Zurna	Keloğlan
Birdirbir	Kemençe	Karagöz

MİNİ TEST

Hapı yutmak

1- Yukarıdaki deyiminin anlamı aşağıdakilerden hangisidir?
A) Baş ağrısı için ağrı kesici yutmak.
B) Çok kötü bir duruma düşmek.
C) Oluşabilecek olaylar için önlem almak.
D) Hastalanmak.

2- "Ayağına kara sular inmek. " deyiminin anlamı aşağıdakilerden hangisidir?

A) Çamaşır yıkamak.
B) Suyun kirlenip kararması.
C) Çok yorulmak.
D) Suyu çok sevmek.

3 - Aşağıdaki deyimlerden hangisi, birisinden bahsetmek anlamı taşır?
A) Kulağını çınlatmak.
B) Kulağı şişmek.
C) Kulak kabartmak.
D) Can kulağıyla dinlemek.

Sana aynı şeyi defalarca söylemekten dilimde .....

4 - Yukarıdaki cümleyi tamamlarsak, noktalı yere hangi kelimeleri yazabiliriz?

A) Tat kalmadı.
B) Yara çıktı.
C) Şişlikler oluştu.
D) Tüy bitti.

Yemekler o kadar çok lezzetli görünüyordu ki ağzımın .....

5- Yukarıda yazan deyimi tamamlarsak, noktalı yere ne yazmalıyız?

A) Tadı kalmadı.
B) Açık kaldı.
C) Suyu aktı.
D) İçinde yara çıktı

" Osman'a bunu anlatmak , deveye ..... daha zor."

6- Yukarıdaki deyimi tamamlarsak, noktalı yere ne yazmalıyız?

A) Çukur atlatmaktan
B) Hendek atlatmaktan
C) İp atlatmaktan
D) Çit atlatmaktan

7- "Ağzıyla kuş tutmak. " deyimi hangi anlamda kullanılır?
A) Ne yaparsa yapsın olmaz anlamında
B) Yetenekli birisidir anlamında
C) Kuş avlamak anlamında
D) Kuşları çok sevmek anlamında.

8- "Eli ayağına dolaşmak. " deyiminin anlamı aşağıdakilerden hangisidir?
A) Ellerini yıkamak.
B) Çok üzülmek.
C) Panik yapmak.
D) Ellerinin ve ayaklarının yerlerini karıştırmak.

www.ilkokulluyum.com

3356 + 300 → K

4389 + 500 → M

9- Yukarıdaki toplama işlemlerini zihinden yapınız. K ve M sayılarını bulunuz. Daha sonra " M - K " işlemini yaptığımızda sonuç kaç olur?

A) 3656 B) 1233
C) 8545 D) 1123

3256+200= 3456	4444+100= 5444
5236+300= 5436	1265+500= 1765
8520+100= 9520	4132+600= 4832

10- Yukarıdaki toplama işlemlerinden kaç tanesinin sonucu doğrudur?

A) İki B) Üç C) Dört D) Beş

11- Çocuklardan hangisi toplama işlemini yanlış yapmıştır?

A) 3659 + 200 = 3859

B) 1256 + 300 = 1556

C) 2654 + 400 = 2954

D) 5897 + 100 = 5997

Su ve mineraller besinlerde bulunur.
..... olarak görev yaparlar.

12- Yukarıdaki cümlede boş bırakılan yere aşağıdaki seçeneklerden hangisini yazabiliriz?

A) Yapıcı ve onarıcı B) Enerji verici
C) Düzenleyici D) Depolayıcı

( ) Kemençe kültürümüze ait bir müzik aletidir.
( ) Tango kültürümüze ait bir dans değildir.
( ) Zeybek kültürümüze ait bir halk oyunu değildir.

13- Yukarıdaki cümlelerin doğru olanlarının başına "D" ve yanlış olanlarının başına "Y" yazarsak, aşağıdaki seçeneklerden hangisi doğru olur?

A)	B)	C)	D)
Y	Y	D	D
D	D	D	D
Y	D	Y	D

14- Aşağıda görselleri verilen tatlılardan hangisi milli kültürümüzü yansıtmaz?

A)
B)
C)
D)

www.ilkokulluyum.com